Scuola Primaria paritaria "VIRGINIA AGNELLI" Anno scol. 2014/'15 Data.....	Cognome..... Nome..... Ordine alfabetico n°.....Classe 1^ C	PROVA "*in itinere*" MATEMATICA

1. Completa la linea dei numeri; disegna, correggi e colora i regoli sotto ad ogni numero della linea

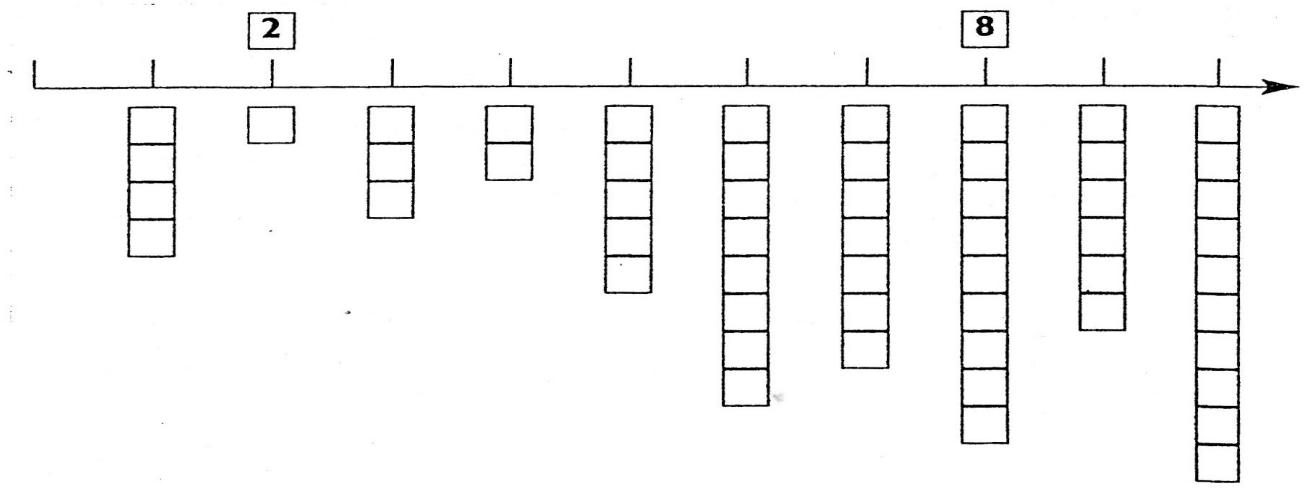

2. Metti il segno <, >, =

3	☐	5	4	☐	4	10	☐	9
6	☐	6	7	☐	10	1	☐	0
8	☐	4	6	☐	4	4	☐	8

3. Completa la linea dei numeri e cerchia in blu i numeri minori di 5 e in verde i numeri maggiori di 7. Dopo calcola le seguenti addizioni

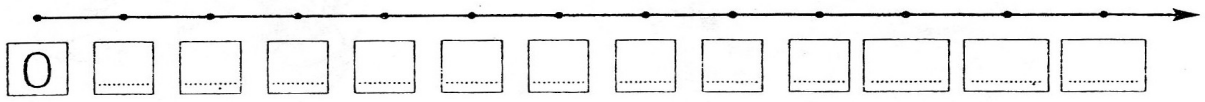

9 + 1 = ...	7 + 2 = ...	5 + 5 = ...
4 + 4 = ...	6 + 4 = ...	8 + 2 = ...
5 + 2 = ...	3 + 3 = ...	4 + 1 = ...
4 + 0 = ...	2 + 3 = ...	3 + 4 = ...
2 + 4 = ...	0 + 8 = ...	6 + 3 = ...

4. Colora queste bandierine come indicato sotto:



La prima è gialla
la sesta è blu
la terza è rossa
la nona è verde
la seconda è arancione
la quinta è viola
l'ottava è rosa
la decima è nera
la quarta è celeste
la settima è bianca

5. Osserva, completa i cartellini e rispondi:





4

Quante fragole ci sono?.....
Quante ciliegie ci sono?.....
Quanti frutti ci sono IN TUTTO?.....



Quanti petali ha la viola?.....
Quanti petali ha la margherita?.....
Quanti petali ci sono IN TUTTO?.....





Quanti gatti ci sono?.....
Quanti cagnolini ci sono?.....
Quanti animali ci sono IN TUTTO?.....